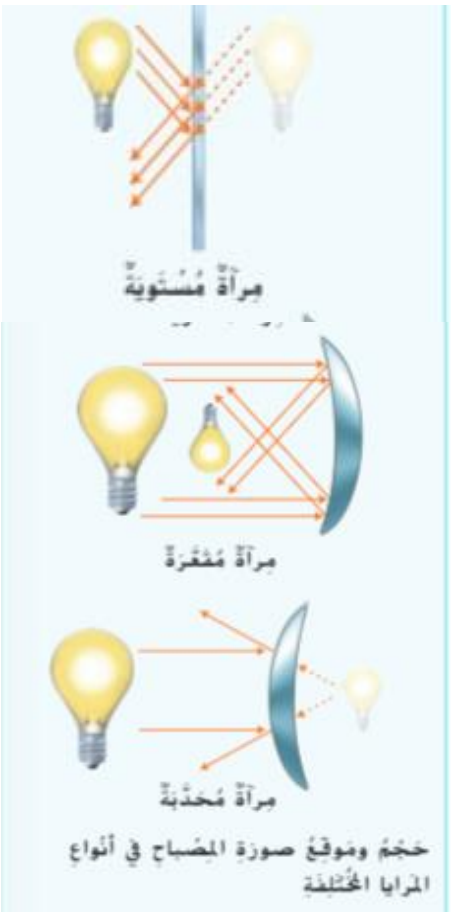
هيكل العلوم – الصف الخامس – الفصل الدراسي الثالث 2021 – 2022

*	تحتسب أفضل 20 إجابة من 25 مثال: 14 إجابة صحيحة تعطي علامة 70/100 بينما 20 أو 23 إجابة صحيحة تعطي العلامة الكاملة أي 100/100.
**	قد تظهر الأسئلة بترتيب مختلف في الامتحان الفعلي.
***	أرقام الصفحات كما وردت في الوحدات الإلكترونية (الديوان).

رقم السؤال	مخرجات التعلم ***	المرجع في كتاب الطالب	
	8.1 الصوت		
1	SCI.017.02.2.4 يستنتج أن الصوت موجات تنتقل من مكان إلى آخر  كيفَ يَنتقِلُ الصَّوتُ؟ يستطيعُ الصَّوتُ الانتقالَ عبرَ المَوادِّ الصُّلبةِ والسَّوائلِ والغازاتِ. وفي الواقعِ، يَميلُ الصَّوتُ إلى الانتقالِ بأعلى سُرعةٍ في المَوادِّ الصُّلبةِ وأقلِّ سُرعةٍ في الغازاتِ. وعلى سَبيلِ المِثالِ، يَنتقِلُ الصَّوتُ عبرَ الفولاذِ بسُرعةِ 6,000 m/s بينما يَنتقِلُ الصَّوتُ عبرَ الهواءِ بسُرعةِ 343 m/s فقطْ. تَنشأُ هذهِ الفُروقُ في سُرعةِ الصَّوتِ عنْ مَدى ابتعادِ الجُسَيماتِ عنْ بعضِها. حيثُ تَحمِلُ الجُسَيماتُ الطّاقةَ الصَّوتيّةَ. ويَنقُلُ تصادُمُها كَيفيّةَ انتقالِ طاقةِ الصَّوتِ. وفي المَوادِّ الصُّلبةِ تَقتَرِبُ الجُسَيماتُ مِنْ بعضِها، ولذلكَ تَصطدِمُ بسُرعةٍ. فَيَنتقِلُ الصَّوتُ. وفي الغازاتِ تَكونُ الجُسَيماتُ مُتباعِدةً عنْ بعضِها، ولذا يَنتقِلُ الصَّوتُ بسُرعةٍ أقلَّ. وتؤثِّرُ كذلكَ درجةُ حرارةِ الوسطِ على سُرعةِ الصَّوتِ. وفي حالةِ الهواءِ الأكثرِ دفئًا تتحرَّكُ الجُسَيماتُ بشكلٍ أسرعَ، ونتيجةً لذلكَ فهيَ تَصطدِمُ بشكلٍ أكبرَ. وتَنتقِلُ الصَّوتُ بشكلٍ أسرعَ.	426	
2	SCI.017.02.2.4 يستنتج أن الصوت موجات تنتقل من مكان إلى آخر  اقرأ وأجب كيفَ يُنتِجُ الصَّوتُ؟ هلْ لاحظتَ منْ قَبلُ الصَّوتَ الصّادرَ منْ طائرةٍ نفّاثةٍ على ارتفاعٍ منخفضٍ كيفَ أنّهُ يؤدّي إلى اهتزازِ الأطباقِ في المَطبخِ؟ قدْ تكونُ لاحظتَ شيئًا مُشابهًا عندما يقومُ شخصٌ ما بتشغيلِ نظامِ (السّتيريو) بصوتٍ مرتفعٍ للغايةِ. ما الّذي يؤدّي إلى اهتزازِ الأجسامِ عندما تُصدِرُ أصواتًا مُرتفعةً بجوارِها؟ عندما يُصدِرُ جسمٌ ما صوتًا فإنّهُ يهتزُّ إلى الأمامِ وإلى الخلفِ. فالاهتزازاتُ النّاتجةُ عنِ الطّبلِ تعملُ على ضغطِ جسيماتِ الهواءِ ثمّ نشرِها بالتّالي. فتنشأُ عنْ ذلكَ مَناطِقُ الهواءِ الّتي تشتملُ على عددٍ كبيرٍ منَ الجسيماتِ (تسمّى الانضغاطاتِ) وتسمّى مَناطِقُ الهواءِ الّتي تشتملُ على عددٍ قليلٍ منَ الجسيماتِ (التّخلخلاتِ). تتحرّكُ الانضغاطاتُ والتّخلخلاتُ عبرَ الهواءِ حاملةً طاقةَ الصّوتِ. وتتحرّكُ كلُّ منطقةٍ منَ الهواءِ فقطْ إلى الأمامِ وإلى الخلفِ. مَناطِقُ الهواءِ الّتي تشتملُ على عددٍ كبيرٍ من الجسيماتِ تسمّى A التخلخلات B الاهتزازات C الانضغاطات D الطاقة تَهتزُّ الموجاتُ الصّوتيّةُ في اتّجاهِ انتقالِها نفسِه الانضغاطُ التَّخلخُلُ تَنشأُ الاهتزازاتُ النّاتجةُ عنْ شفراتِ الطّائرةِ المروحيّةِ موجاتٍ صوتيّةً قويّةً. تَنتقِلُ كثافةُ الهواءِ وليسَ الهواءُ نفسُه القمّةُ القاعُ يمكنُ نمذجةُ كثافةِ الهواءِ المتغيّرةِ من القممِ والقيعانِ تُسمّى سلاسلُ التخلخلاتِ والانضغاطاتِ الّتي تنتقلُ عبرَ المادّةِ موجةً صوتيّةً، وتُسمّى المادّةُ الّتي تنتقلُ الموجةُ من خلالِها وسطَ الموجةِ. ومثلُ الموجاتِ جميعِها، تحملُ موجاتُ الصّوتِ الطّاقةَ. وعندما تمرُّ غيرُ وسطٍ فلا يَنتقلُ الوسطُ بشكلٍ دائمٍ. ولكنْ تَنتقلُ الطّاقةُ بشكلٍ دائمٍ منْ مكانٍ إلى آخرَ. تعملُ الموجاتُ الصّوتيّةُ على اهتزازِ الوسطِ في اتّجاهِ انتقالِ الطّاقةِ نفسِه. وتُسمّى الموجاتُ الّتي تنتقلُ كذلكَ تمثيلَ الموجاتِ الصّوتيّةِ كسلسلةٍ منَ الضّمِ والقيعانِ. حيثُ تُظهِرُ القممُ الكثافةَ المرتفعةَ للهواءِ في الانضغاطاتِ. وتُظهِرُ القيعانُ الكثافةَ المنخفضةَ للهواءِ في التّخلخلاتِ. ولكنْ تذكّرْ أنّ الهواءَ لا ينتقلُ إلى الأعلى وإلى الأسفلِ مثلَ القممِ والقيعانِ. عندما نُصطدِمُ الموجاتُ الصّوتيّةُ بجسمٍ يبدأُ الجسمُ في الاهتزازِ. حيثُ يتحرّكُ الجسمُ بفعلِ طاقةِ الموجةِ. وهذهِ هيَ الكيفيّةُ الّتي تجعلُ الصّوتَ المرتفعَ الصّادرَ منْ طائرةٍ أوْ (ستيريو) يهزُّ الأطباقَ. ويُمكنُكَ أنْ تشعرَ بالاهتزازاتِ النّاتجةِ عنْ مثلِ هذهِ الأصواتِ المرتفعةِ. مُراجَعةٌ سريعةٌ 1. صِفْ كثافةَ الهواءِ في غُرفةٍ فعلَقةٍ عندما يتمُّ تشغيلُ الموسيقى. 425 424	الشكل صفحة 424	424

430	الشكل صفحة 430	SCI.017.02.2.4 يستنتج أن الصوت موجات تنتقل من مكان إلى آخر **شِدَّةُ الصَّوتِ** مِقياسُ قوَّةِ الصَّوتِ أوْ ضَعفِهِ. فإذا قُرِعَتْ على طَبْلَةٍ بِقوَّةٍ فَسيصدرُ صَوتٌ أكثرُ شِدَّةً. وإذا قُرِعَتْ بِلُطفٍ فَسيكونُ الصَّوتُ أقلَّ شِدَّةً. يقيسُ العُلماءُ شِدَّةَ الأصواتِ **بالديسيبل** (dB). والأصواتُ الأعلى مِنْ 85 ديسيبل تؤدّي إلى إتلافِ السَّمْعِ. ولِذا فعليكَ أنْ تُرتدي سَدّاداتِ الأُذُنِ عندما تكونُ بِجوارِ الأصواتِ المُرتفِعةِ! **السَّعَةُ** هي بُعْدُ مركزِ الانضغاطِ أو التَّخلخُلِ لِجُزَيْئاتِ الوَسَطِ عَنْ مَوضِعِ الاتِّزانِ. يعتمدُ ارتفاعُ أوْ شِدَّةُ الصَّوتِ على سَعةِ المَوجاتِ الصَّوتيَّةِ. السَّعةُ الصَّغيرةُ (صوتٌ مُنخفِضٌ) السَّعةُ الكبيرةُ (صوتٌ مُرتفِعٌ) 4 **التَّحضيرُ للاختبارِ** ما شِدَّةُ الصَّوتِ الَّتي تبدأُ عندها الأصواتُ في إتلافِ السَّمْعِ؟ A 10 ديسيبل B 65 ديسيبل C 85 ديسيبل D 150 ديسيبل 430	3
432	الشكل صفحة 432	SCI.017.02.2.4 يستنتج أن الصوت موجات تنتقل من مكان إلى آخر تَستخدِمُ القَوارِبُ (السّونار) لِلبَحثِ عَنِ الأَجسامِ في البَحارِ. تَستخدِمُ الخَفافيشُ الصَّوتَ المُرتَدَّ لِلصَّدى لِتحديدِ مَوقِعِ الحَشَراتِ. **تَحديدُ المَوقِعِ بالصَّدى** يُمكِنُ الاستفادةُ مِنْ صَدى الصَّوتِ. فالخَفافيشُ – على سَبيلِ المِثالِ – تُصدِرُ أصواتًا. وتَستقبِلُ صَداها فَنَتَجَنَّبُ الاصطدامَ بالعَوائِقِ. وتَحدِّدُ مَوقِعَ فَريسَتِها. يَعرِفُ الخُفّاشُ مِنَ الصَّدى مَوقِعَ ضَحيَّتِهِ. يُعرَفُ البَحثُ عَنِ الغِذاءِ أوْ أشياءَ أخرى بِهذهِ الطَّريقةِ. باسمِ **تَحديدِ المَوقِعِ بالصَّدى**. وتَستخدِمُ كذلكَ الحيتانُ والدَّلافينُ تحديدَ الموقعِ بالصَّدى لتحديدِ اتِّجاهِها والبَحثِ عنِ الغِذاءِ.	4
426		SCI.017.02.2.4 يستنتج أن الصوت موجات تنتقل من مكان إلى آخر **حقيقة** لا يستطيعُ الصَّوتُ الانتقالَ عبرَ الفضاءِ الخارجيِّ هَلْ يستطيعُ الصَّوتُ الانتقالَ في منطقةٍ لا تَحتوي على أيَّةِ جُسَيماتٍ؟ لا. لا يَستطيعُ الصَّوتُ الانتقالَ دونَ وجودِ وسطٍ. وعلى سَبيلِ المِثالِ، فإنَّ الفضاءَ الخارجيَّ يحتوي على عددٍ قليلٍ جدًّا مِنَ الجُسَيماتِ. إذًا لا يوجدُ وسطٌ يَنتقلُ من خلالِهِ الصَّوتُ. إنَّ الفضاءَ الخارجيَّ هو **فراغٌ**. ويُعرَّفُ على أنَّهُ منطقةٌ تحتوي على القليلِ من الجُسَيماتِ أوْ لا يحتوي على جُسَيماتٍ. يُعتبرُ الماءُ وَسطًا جَيِّدًا لِأصواتٍ مِثلَ أغاني الدَّولفينِ. 1 **المُفرداتُ** المادَّةُ الَّتي تَنتقلُ مَوجاتٌ مِنْ خلالِها تُسمّى **الوسط**. 5 **التَّحضيرُ للاختبارِ** الصَّدى هو مِثالٌ على مَوجةٍ صَوتيَّةٍ يَتمُّ A نَقلُها. B امتصاصُها. C عكسُها. D رُكودُها.	5

8.2الضوء

6	SCI.018.02.2.4 يستنتج أن الضوء موجات تنقل الطاقة وأن الضوء ينتقل في خطوط مستقيمة مفسرًا اختلاف سلوك الأجسام المختلفة  **1 المُعَرَّدات** مادّة أو جسم يحجب الضوء تمامًا يكون **معتمًا**	444
7	SCI.018.02.2.4 يستنتج أن الضوء موجات تنقل الطاقة وأن الضوء ينتقل في خطوط مستقيمة مفسراً اختلاف سلوك الأجسام المختلفة عندما تَنظُرُ إلى مِرآةٍ، سترى صُورَةً. **الصُّورَةُ** هي "صُورَةٌ" مصدر الضوء التي يقوم الضوء بإنشائها عندما ينعكس على سطح لامع. تكون الصُّورَةُ في المِرآةِ واضحةً لأنَّ مُعظَمَ موجةِ الضَّوءِ تنعكس في الاتِّجاهِ نفسه على السَّطحِ الأملسِ للمِرآةِ. الانعكاسُ هو التَّشتُّتُ المُنتظمُ للموجة. عندما يصطدمُ الضَّوءُ بمِرآةٍ، فهو يتبعُ قانونَ الانعكاسِ: تكونُ زاويةُ شعاعِ الضوءِ الساقطِ مساويةً لزاويةِ شعاعِ الضوءِ المنعكسِ. تبدو الصُّورَةُ في مِرآةٍ مُستويةٍ وكأنَّها خلفَ المِرآةِ. تكونُ المسافةُ بين المِرآةِ والصورةِ مساويةً للمسافةِ بين الجسمِ والمِرآةِ. **4 التَّحضيرُ للاختبارِ** ينصُّ قانونُ الانعكاسِ على أنَّ زوايا السُّقوطِ والانعكاسِ A تكونُ مُتساويةً دائمًا. B لا تكونُ مُتساويةً مُطلقًا. C تكونُ كبيرةً دائمًا. D تكونُ صغيرةً دائمًا.  حجمُ وموقعُ صورةِ المِصباحِ في أنواعِ المرايا المُختلفةِ	446

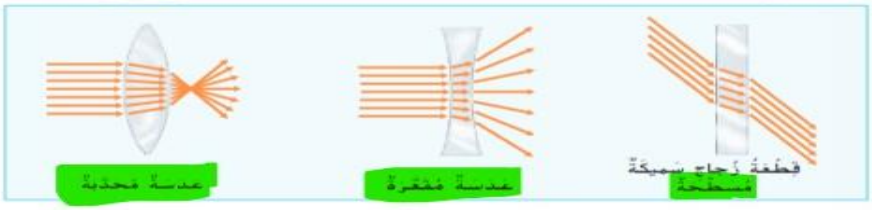
8	SCI.018.02.2.4 يستنتج أن الضوء موجات تنقل الطاقة وأن الضوء ينتقل في خطوط مستقيمة مفسراً اختلاف سلوك الأجسام المختلفة	447
9		
10		



اِنْكِسارُ الضَّوءِ

عندما تضع جسمًا في كوب ماء، سيبدو كأنّه منكسر. لكنّ، إذا سحبت الجسم للخارج، فإنّه يبقى مستقيمًا. كيف يُمكن حدوث ذلك؟ الضّوء المنبعث من الجسم هو الذي ينكسر وليس الجسم نفسه.

عندما يتغيّر وسطُ الضّوء، تتغيّر كذلك سرعته. وعندما تتغيّر سرعة الموجات، فهي تنكسر. **الانكسار** انحراف الموجات عند مرورها من مادة إلى أخرى. وعلى الرّغم من أنّ الانكسار لا يكونُ ملحوظًا مع موجات الصّوت، إلّا أنّه يظهر بوضوح مع موجات الضّوء.





تنحرفُ الأشعّةُ التي تدخلُ وسطًا أكثرَ كثافةً لتنشئ زاويةً أكبرَ مع السّطح. ولكنّ الأشعّة التي تترك وسطًا أكثر كثافةً تنحرفُ في الاتّجاه المقابل.

تستخدم العدسات الانكسار لتشكيل الصّور.

تعمل العدسات المحدبة مثل المرايا المقعرة. وتعمل العدسات المقعرة مثل المرايا المحدبة.

تستخدم العدسات في النظارات لجعل الأجسام تظهر في البؤرة. وتستخدم كذلك العدسات في الكاميرات والتلسكوب لتقبير حجم الصّورة التي تراها. يعتمد حجم الصّورة وموقعها على مكان الجسم والعدسة بالنّسبة لبعضهم بعضًا.


عندما يتمّ مزج أجزاء متساوية من اللّون الأرجوانيّ و اللّون السّماويّ و اللّون الأصفر، فإنّها تمتصّ كلّ الضّوء وتظهر سوداء.


عندما يتمّ مزج أجزاء متساوية من أشعّة الضّوء الحمراء والخضراء والزّرقاء، فهي تُشكّل الضّوء الأبيض.

447

التّحضير للاختبار ما نوع الضّوء الذي له طول موجة أقصر من الضّوء الأخضر؟

A الضّوء الأحمر
B موجات الرّاديو
C الأشعّة السينيّة
D الضّوء الأصفر

يمكنك كذلك فصل الضّوء باستخدام منشور. **المنشور** جزء من قطعة من الزّجاج أو البلاستيك اللّذين على شكل مثلث أو شكل هندسيّ آخر. ومجموعة الألوان في قوس النّظير أو من الضّوء المنكسر لمنشور تسمّى **الطّيف**.

9.1 المعادن

11	SCI.007.03.3.2 يجري تجارب متنوعة لتحديد الخصائص الفيزيائية للمعادن	468
12		468

وهذه الكُتَلُ هي معادن. **المَعدِنُ** هو مادّةٌ صلبةٌ وطبيعيّةٌ تتشكّلُ من موادّ غير عضويّة في القشرة الأرضيّة.




أحجارُ الزُّمُرُّد "الإميرالد" عبارةٌ عن معادن تتكوّن طبيعيًّا في بعض الصُّخور، حيثُ تُقطّعُ أحجارُ الزُّمُرُّد وتُلمّعُ لاستخدامها في المجوهرات.

468

SCI.008.03.3.2 يشرح الخصائص المستخدمة في تحديد المعادن

13

471

ما بَعضُ الخَواصِّ الأُخرى لِلمَعادِنِ؟

الصَّلادَةُ خاصِّيَّةٌ أُخرى هامَّةٌ تُستَخدَمُ لِتَحديدِ المَعادِنِ. وتُقاسُ صَلادَةُ المَعدِنِ بِمِقدارِ مُقاوَمَتِهِ الخَدْشَ. وتُخدَشُ المَعادِنُ الأَقَلُّ صَلادَةً بِسُهولَةٍ. وتُخدَشُ المَعادِنُ الأَكثَرُ صَلادَةً بِصُعوبَةٍ أَكبَرَ.

فريدريش موس، عالِمٌ ألمانِيٌّ ابتَكَرَ مِقياسًا لِلصَّلادَةِ لِيُقارِنَ بَينَ المَعادِنِ مِن حَيثُ صَلادَةُ بَعضِها بَعضًا. وأَصبَحَ هذا يُعرَفُ بِمِقياسِ (موس) لِلصَّلادَةِ. وتُرَتَّبُ المَعادِنُ على مِقياسِ موس لِلصَّلادَةِ بَدءًا مِنَ 1 وهي الأَقَلُّ صَلادَةً، إِلى 10 وهي الأَكثَرُ صَلادَةً.

مِقياسُ موس لِلصَّلادَةِ

الصَّلادَةُ	المَعدِنُ	يُمكِنُ خَدْشُها بِاستِخدامِ
1	التلك	ظُفرِ الإِصبَعِ بِسُهولَةٍ
2	الجبس	ظُفرِ الإِصبَعِ بِصُعوبَةٍ
3	الكالسيت	الجبس أو عملة معدنية
4	الفلوريت	قطعة زجاج
5	الأباتيت	الفلز (شفرة سكين)
6	الفلسبار	الخزف (طبق مخدش)
7	الكوارتز	مسمار من الفولاذ
8	التوباز	
9	الكورانْدم	
10	الماس	

إِقْرَأِ الجَدولَ

أَيُّ المَعادِنِ يُخدَشُ بِقِطعَةٍ مِنَ النُّحاسِ، ولكِنْ لا يُخدَشُ بِظُفرِ الإِصبَعِ؟

الكالسيت


التلك


الماس

المَخدَشُ

البيريت أو الذَّهَبُ الكاذِبُ لَونُهُ أَصفَرُ، وَذو بَريقٍ مَعدِنِيٍّ لامِعٍ. ومَخدَشُهُ أَسوَدُ مائِلٌ إِلى الخُضرَةِ.





إِقْرَأِ الصُّورَةَ

كَيْفَ تُحَدِّدُ مَخدَشَ المَعدِنِ؟

يُطلَقُ على لَونِ مَسحوقِ المَعدِنِ مَخدَشٌ. ولِلاحِظْ مَخدَشَ المَعدِنِ على بَلاطَةٍ أَو لَوحٍ مِنَ الخَزَفِ.

البَريقُ طَريقَةٌ يَعكِسُ بِها لِمَعدِنُ الضَّوءَ، وتَبدو المَعادِنُ ذاتُ البَريقِ الفِلِزِّيِّ لامِعَةً مِثلَ الذَّهَبِ - البيريت، وتَبدو المَعادِنُ الَّتي لا بَريقَ مَعدِنِيَّ لَها باهِتَةً.

التلك مَعدِنٌ لَيِّنٌ. وهو رَقَمُ 1 على المِقياسِ. والأَلماسُ أَصلَدُ المَعادِنِ المَعروفَةِ. وهو رَقَمُ 10. المَعدِنُ ذو رَقَمٍ أَعلى يَخدِشُ المَعدِنَ ذو رَقَمٍ أَدنى. وعَنْ طَريقِ خَدشِ مَعدِنٍ غَيرِ مَعروفٍ بِاستِخدامِ مَعادِنَ أُخرى ذاتِ صَلادَةٍ مَعروفَةٍ يُمكِنُكَ أَنْ تَكتَشِفَ صَلادَةَ المَعدِنِ غَيرِ المَعروفِ.

عِندَ كَسرِ مَعدِنٍ يُمكِنُ أَنْ يُساعِدَ مَظهَرُ أَسطُحِ المَعدِنِ في تَحديدِهِ. وإِنَّ انكِسارَ المَعدِنِ إِلى أَسطُحٍ ناعِمَةٍ ومُسطَّحَةٍ يُسَمّى الانفِصامَ. يوصَفُ الانفِصامُ بِعَدَدِ المُستَوياتِ الَّتي انكَسَرَ إِلَيها المَعدِنُ. بَينَما يَكتَشِفُ أَيُّ مَعدِنٍ انكَسَرَ إِلى أَسطُحٍ حادَّةٍ مُدَبَّبَةٍ أَو غَيرِ مُستَوِيَةٍ عَنِ المَكسَرِ.

14

474

أي من الأتية يعتبر جسما صلبا بنيته مرتبة بشكل هندسي ثابت

E. الاسمنت

F. الفحم

G. الماء

H. البلورة

ما ذا يدرس الجيولوجيون ؟

q) النجوم والمجرات

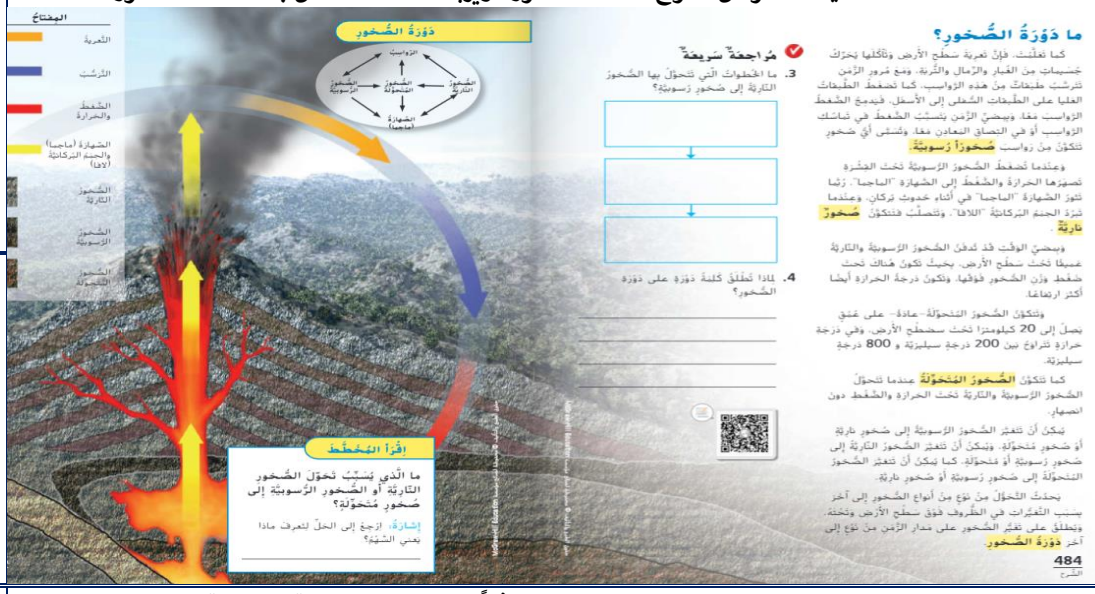
r) الكهرباء

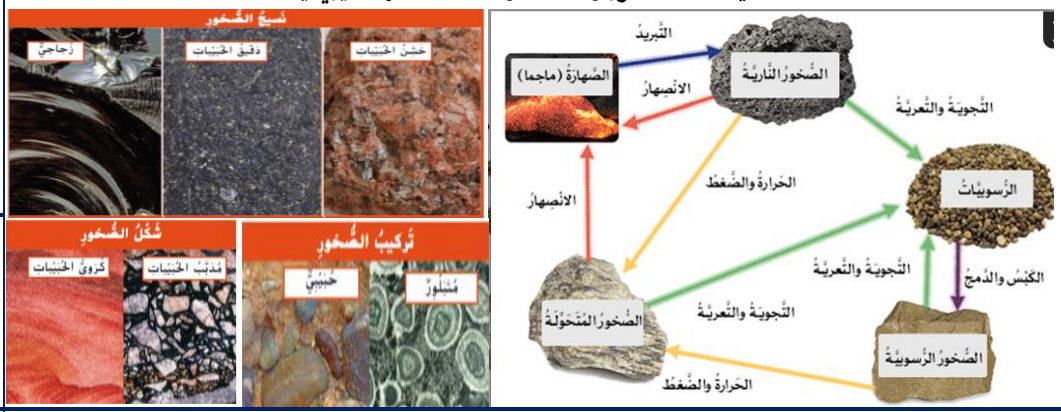
s) الصخور والمعادن

t) الخلايا

9.2 الصخور

15	SCI.009.03.3.2 يصف خواص الأنواع الثلاثة للصخور ، ويربط هذه الخصائص بمنشأ هذه الصخور	الشكل ص 485	485
16			486
17	SCI.010.03.3.2 يصنف الصخور والمعادن وفقاً لخصائصها الفيزيائية المختلفة		487
18			488
19	SCI.011.03.3.2 يفسر كيف يؤدي التفاعل بين الأنظمة الأرضية التي تشكل الصخور النارية والرسوبية والمتحولة	الشكل ص 499	499
20			499
21			502
22			502







10.1 التكنولوجيا وحياتك - 10.2 التكنولوجيا والطبيعة

SCI.008.01.2.1 يبين أثر التطور التكنولو يجي على تغيير رغبات وحاجات الناس مع الزمن

23	 سمح لنا اختراع المجهر (الميكروسكوب) باكتشاف الخلايا.	## ما المقصود بالتكنولوجيا؟ انظر حولك. ماذا ترى؟ قد ترى أجهزة حاسب آلي وتليفزيونات وهواتف خلوية. كل تلك الأشياء عبارة عن تكنولوجيا. قد ترى كذلك مكاتب وكتب وأبواب ونوافذ. إنها كذلك تكنولوجيا. **التكنولوجيا** هي كل الطرائق التي يتبعها الإنسان في تغيير الطبيعة من حوله لكي تلبي احتياجاته. التكنولوجيا هي كل المنتجات والاختراعات التي اخترعها الإنسان. صممت التكنولوجيا لحل المشكلات التي تواجه البشر وقد بدأ ظهورها **مجالات التكنولوجيا** **تِكْنولوجيا طِبِّيَّة** هي مجال من مجالات التكنولوجيا. وتستخدم معلومات تختص بالكائنات الحيّة لتتمكّن من تلبية احتياجات الإنسان. وتُعدّ التكنولوجيا الطِّبِّيّة نوعًا من أنواع التكنولوجيا الحيوية. وهو مجال يركّز على تطوير الأجهزة والطرائق التي تُسهم في تحسين الكيفية التي نُشخّص ونعالج بها الأمراض. **تِكْنولوجيا طِبِّيَّة** تُعدّ الهندسة الوراثية نوعًا آخر من التكنولوجيا الحيوية. إنها تسمح للعلماء بأن يغيّروا من التركيب الجيني للكائن الحيّ. تستخدم الهندسة الوراثية في العديد من المجالات المختلفة في الوقت الحالي. مثلًا، يمكن تشكيل بعض أنواع البكتيريا وراثيًا لتنظيف بقع الزيت. **تِكْنولوجيا وَسائِلِ النَّقْلِ** منذ اختراع العجلات منذ آلاف الأعوام، استمرّ الإنسان في تطوير طرائق أسرع وأكثر كفاءة للتنقل. كما سمح اختراع العجلات للإنسان أن يصمّم العربات. والآن، أصبحت التحرّكات الثلاثة للطائرات المغناطيسية من الوسائل التي تساعدنا في الشفر لآلاف الأميال في ساعات معدودة. **تِكْنولوجيا الاتِّصالاتِ** تطوّرت تكنولوجيا الاتصالات من إشارات الدخان إلى أجهزة الحاسب الآلي والهواتف المحمولة والإنترنت. هذا بالإضافة إلى أنواع أخرى من التكنولوجيا التي ظهرت فيما بين تلك الاختراعات. وهي التي تسمح للأفراد بمشاركة المعلومات مع الآخرين. إن كل نوع جديد من أنواع التكنولوجيا يكون قائمًا على النوع السابق منها. ربما تكون قد لاحظت أن كلمتي علوم وتكنولوجيا عادة ما تُستخدم معًا. والسبب في هذا الأمر أن التكنولوجيا قائمة على العلوم. فقبل أن يصبح من الممكن التوصل إلى حل لمشكلة ما، لا بد على الإنسان أن يفهم ويعي المفاهيم العلمية الكامنة وراء تلك المشكلة. على سبيل المثال، على الأطباء أن يتفهموا أسباب ظهور مرض ما قبل أن يتمكنوا من علاجه. كذلك، يستخدم الإنسان التكنولوجيا لاكتساب قدر أكبر من المعرفة العلمية. مثلًا، تكنولوجيا مثل الحاسب الآلي، والأشعة المقطعية، والرنين المغناطيسي تساعد الأطباء على معرفة المزيد حول الجسم البشري. وهذا ما يسمح لهم بعلاج الأمراض. العلم والتكنولوجيا يسيران معًا جنبًا إلى جنب.	523

SCI.005.01.2.1 يحلل ويفسر المشكلات التكنولوجية والهندسية

24	### 4 التَّحضيرُ للاختبارِ ما الَّذي يُعَدّ مِثالًا على التِّكْنولوجيا؟ A خَشَبٌ B تُفّاحَةٌ C تُرْبَةٌ D شَجَرَةٌ	تِلْكَ التِّكْنولوجيّاتُ مُصَمَّمَةٌ مِنْ أَجْلِ مُحاكاةِ الطَّبيعَةِ. فَجِهازُ تَنْظيمِ ضَرَباتِ القَلْبِ يُساعِدُ عَلى تَنْظيمِ ضَرَباتِ قَلْبِ الإِنْسانِ. كَما يُمْكِنُ أَنْ يَحُلَّ القَلْبُ الاصْطِناعِيُّ مَحَلَّ القَلْبِ الطَّبيعِيِّ لِلإِنْسانِ.	الشكل ص 534	534
25	 صُمِّمَتِ العديدُ مِنَ الطّائِراتِ مِنْ أَجْلِ مُحاكاةِ موضِعٍ وشَكْلِ أَجْنِحَةِ الطُّيورِ في أَثْناءِ الطَّيَرانِ. **المُواصَلاتُ** يُمْكِنُنا أَنْ نَرى التِّكْنولوجيا الَّتي تُحاكي الطَّبيعَةَ كَذلِكَ في وَسائِلِ النَّقْلِ والمُواصَلاتِ. فَقَدْ لاحَظَ العُلَماءُ أَنَّ الطُّيورَ تَضْبِطُ أَجْنِحَتَها لِلتَّغَيُّرِ مِنْ أَنْماطِ تَدَفُّقِ الهَواءِ عَلَيْها في أَثْناءِ تَحْليقِها. وَقَدْ صُمِّمَتِ العديدُ مِنْ أَجْنِحَةِ الطّائِراتِ بِالنَّحْوِ نَفْسِهِ لِتُحاكِيَ 	  **والطَّرَفُ الاصْطِناعِيُّ** عِبارَةٌ عَنْ مُلْحَقٍ اصْطِناعِيٍّ يَحُلُّ مَحَلَّ عُضْوٍ مِنْ أَعْضاءِ الجِسْمِ. قَدْ تَحْتاجُ أَعْضاءُ جِسْمِ الإِنْسانِ إِلى الاسْتِبْدالِ نَتيجَةَ حَوادِثَ أَوْ أَمْراضٍ أَوْ عُيوبٍ خَلْقِيَّةٍ.		534
	الرّوبوتاتُ عِبارَةٌ عَنْ مَجالٍ مِنْ مَجالاتِ العُلومِ والتِّكْنولوجيا يَسْتَخْدِمُ الإِنْسانُ الآلِيُّ. **والإِنْسانُ الآلِيُّ** عِبارَةٌ عَنْ جِهازٍ مُبَرْمَجٍ يَقومُ بِأَداءِ بَعْضِ المَهامِّ. وَيُمْكِنُ أَنْ يَكونَ لَهُ هَياكِلُ تُماثِلُ الجِهازَ			

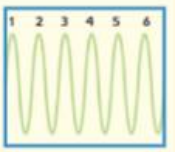
استِخدامُ الطّاقَةِ

الفكرة الرئيسة ما أشكالُ الطّاقَةِ؟

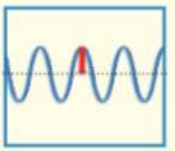
الصوت - الضوء

المُفرداتُ

جِدّةُ (درجةُ) الصَّوتِ خاصّيّةٌ ادراكيّةٌ تسمحُ لنا بتمييزِ الاصواتِ المسموعةِ حسبَ تردُّدِها وهي تُمكّننا من التّمييزِ بينَ الصّوتِ الرّفيعِ والصّوتِ الغليظِ.




شِدّةُ الصَّوتِ مِقياسُ قوّةِ الصّوتِ (ارتفاعِه) أو ضعفِه (انخفاضِه).




مَوْجةٌ صَوْتيّةٌ سلسلةٌ من التّخلخلاتِ والانضغاطاتِ الّتي تنتقلُ عبرَ مادّةٍ.



المَنْشورُ هو جزءٌ تمّ قطعُهُ من الزّجاجِ أو البلاستيكِ الشّفّافِ أو أيِّ شكلٍ هندسيٍّ آخرَ.



فوتون حزمةٌ دقيقةٌ من الطّاقةِ تنتقلُ من خلالِها الضّوءُ.



التَّحْضيرُ للاخْتِبارِ

1. الصّوتُ الأصليُّ أكثرُ قوّةً من صداهُ لأنَّ بعضَ الطّاقةِ من الموجةِ الصّوتيّةِ الأصليّةِ قد
   - A انعكسَتْ.
   - B انضغطَتْ.
   - C تمّ تكبيرُها.
   - D تمّ امتصاصُها

2. بخلافِ الموجاتِ الصّوتيّةِ، تستطيعُ الموجاتُ الضّوتيّةُ أنْ تنتقلَ من خلالِ
   - A الفراغِ.
   - B السّائلِ.
   - C الصّلبِ.
   - D الغازِ.

3. ما الوحدةُ الّتي يتمُّ استخدامُها لقياسِ شدّةِ الصّوتِ؟
   - A الهيرتز (Hz)
   - B الأوم (Ω)
   - C الديسبل (dB)
   - D الأمبير (A)

4. ما العمليّةُ الّتي تتسبّبُ في ظهورِ الماصّةِ أدناهُ وكأنّها مكسورةٌ؟
   - A الانعكاسُ
   - B الامتصاصُ
   - C الانكسارُ
   - D المِغناطيسيّةُ الكهربائيّةُ



5. الضّوءُ البنفسجيُّ وأشعّةُ جاما هما نوعانِ مختلفانِ من الإشعاعِ الكهرومغناطيسيِّ. ما الأشياءُ المشتركةُ بينَ هذينِ الشّكلينِ من الإشعاعِ؟
   - A لهما طولُ الموجةِ نفسُه.
   - B لهما التّردُّدُ نفسُه.
   - C لهما اللّونُ نفسُه.
   - D ينتقلانِ بالسّرعةِ نفسِها

المَعادِنُ والصُّخورُ والتُّربَةُ

الفكرة الرئيسة ما المَعادِنُ والصُّخورُ والتُّربَةُ؟



المَعدِنُ مادّةٌ صلبةٌ تكوّنتْ طبيعيًّا في القشرةِ الأرضيّةِ. وذاتُ تركيبٍ كيميائيٍّ مُعيّنٍ.



الصَّخرُ مادّةٌ صلبةٌ مكوّنةٌ طبيعيًّا في القشرةِ الأرضيّةِ. ويحتوي على معدنٍ واحدٍ أو أكثرَ.

المُفرداتُ



المَعدِنُ مادّةٌ صلبةٌ تكوّنتْ طبيعيًّا في القشرةِ الأرضيّةِ. وذاتُ تركيبٍ كيميائيٍّ مُعيّنٍ.



انْبِصامٌ خاصّيّةٌ توصفُ بها قابليّةُ المعدنِ للانكسارِ على سطحٍ مُستوٍ.



الصَّخرُ مادّةٌ صلبةٌ مكوّنةٌ طبيعيًّا في القشرةِ الأرضيّةِ. ويحتوي على معدنٍ واحدٍ أو أكثرَ.



مخدش لونُ مسحوقِ المعدنِ.



الصَّلادَةُ خاصّيّةٌ تقيسُ مدى مُقاومةِ المعدنِ للخَدْشِ.



تُربَةٌ خليطٌ من قطعِ الصُّخورِ الصّغيرةِ وبقايا النّباتاتِ والكائناتِ الحيّةِ.

الإعداد للاختبار

ضَعْ دائرةً حَوْلَ الإجابةِ الأفْضَلِ لِكُلِّ سُؤالٍ.

1. ما الخاصّيّةُ الّتي تُحدّدُ مدى سهولةِ خدشِ معدنٍ ما؟
   - A المخدشُ.
   - B الصّلادةُ.
   - C الانقسامُ.
   - D التّفاعلُ مع الحمضِ.

2. التّغيّراتُ التّاليةُ جميعُها تحصلُ خلالَ دورةِ الصّخورِ باستثناءِ ــــــ
   - A الصّهارة ← الصّخورِ الرّسوبيّة
   - B الصّخورِ النّاريّة ← الرّواسب
   - C الصّخورِ المتحوّلة ← الصّهارة
   - D الرّواسب ← الصّخورِ الرّسوبيّة

3. أجرى أحدُ الطّلّابِ اختبارَ صلابةٍ على أربعِ عيّناتٍ معدنيّةٍ باستخدامِ خدشِ كلِّ عيّنةٍ للعيّناتِ الأخرى. المعدنُ 1 خدشَ المعدنَ 2 ولكنّهُ لمْ يخدشِ المعدنَ 3. المعدنُ 2 لمْ يخدشْ أيًّا من المعادنِ الأخرى. المعدنُ 4 خدشَ المعدنَ 3. ما المجموعةُ الّتي تُظهرُ عيّناتِ المعادنِ بالترتيبِ من الأكثرِ ليونةً إلى الأكثرِ صلادةً؟
   - A 1, 2, 3, 4
   - B 1, 3, 4, 2
   - C 2, 1, 3, 4
   - D 2, 4, 1, 3

4. ما الخصائصُ الأكثرُ أهمّيّةً في تحديدِ المعادنِ؟
   - A الوزنُ والشّكلُ.
   - B الحجمُ والقدرةُ على الطّفْوِ.
   - C البريقُ والمخدشُ.
   - D الشّكلُ واللّونُ.

إستخدمِ الجدولَ التّاليَ للإجابةِ عنِ السّؤالِ 5

مجموعةُ الصُّخورِ	الخصائصُ
نارية	تتشكّلُ عندما تبردُ الصّخورُ المنصهرةُ وتتحوّلُ إلى الشّكلِ الصّلبِ.
متحولة	تتشكّلُ عندما تتعرّضُ الصّخورُ إلى زيادةٍ في الحرارةِ والضّغطِ
رسوبية	تتشكّلُ عندما تتعرّضُ مجموعةٌ من قطعِ الصّخورِ والمعادنِ المتماسكةِ مع بعضِها

5. يظهرُ الجدولُ السّابقُ مجموعةَ خصائصَ لثلاثةِ أنواعٍ رئيسةٍ لمجموعاتٍ من الصّخورِ. ما الترتيبُ الصّحيحُ الّذي يجبُ إدراجُه في العمودِ الأيمنِ (بالأحرفِ الأسطرِ)؟
   - A صُخورٌ ناريّةٌ، صُخورٌ رسوبيّةٌ، صُخورٌ مُتحوّلةٌ.
   - B حمم بركانية، صُخورٌ نارية، صخور مُتحوّلةٌ.
   - C صُخورٌ رسوبيّةٌ، صُخورٌ مُتحوّلةٌ، صُخورٌ ناريّةٌ.
   - D صُخورٌ ناريّةٌ، صُخورٌ مُتحوّلةٌ، صُخورٌ رسوبيّةٌ

6. أنظرُ الجدولَ أدناهُ.

نملكُ قطعةً نقديّةً نحاسيّةً قُوّةُ صلادتِهِ

الصلادة	المعدن
1	talc
2	gypsum
3	calcite
4	fluorite
5	apatite
6	feldspar
7	quartz
8	topaz
9	corundum
10	diamond

مقدارُها 3. أيُّ من المعادنِ التّاليةِ يُمكنُ للقطعةِ النّقديّةِ أنْ تخدشَها؟
   - A التوباز والتلك.
   - B الأباتيت والألماس.
   - C التلك والجبس.
   - D الفلسبار والكوارتز.

7. أيًّا من خصائصِ المعادنِ التّاليةِ نحتاجُ دراستَها باستخدامِ قطعةٍ من الخزفِ؟
   - A اللّونُ.
   - B الصّلابةُ.
   - C اللّمعانُ.
   - D المخدشُ.

8. ما الّذي يُسبّبُ تغيُّرَ صخورٍ ناريّةٍ إلى صخورٍ متحوّلةٍ؟
   - A العواملُ الجويّةُ، والتّآكلُ.
   - B الحرارةُ والضّغطُ.
   - C الضّغطُ والتّلاحمُ.
   - D الإذابةُ والتّبريدُ.

9. سكبَ أحدُ الطّلّابِ سائلًا ما على معدنٍ، وبدأَ المعدنُ بالفوارانِ وتكوّنَ الفقاقيعُ. فيما الخاصّيّةُ الّتي كانَ يختبرُها الطّالبُ؟
   - A الانقسامُ.
   - B الصّلابةُ.
   - C اللّمعانُ.
   - D التّفاعلُ مع الحمضِ.

10. تتغيّرُ الصّخورُ بالظّروفِ فوقَ وتحتَ سطحِ الأرضِ. فسّرْ كيفَ يمكنُ للصّخورِ الرّسوبيّةِ أنْ تتحوّلَ إلى صُخورٍ ناريّةٍ؟

رسوبية حرارة وضغط متحولة انصهار وتبريد نارية